

3 Do křížovky dopiš rodová jména rostlin a živočichů na obrázcích a tajenku doplň do věty:

Břehovou zeleň potoků a řek často doprovází listnatý strom - ☐☐☐☐.

1.

2.

1.								
2.	B						CH	
3.				I				
4.	N							



3.

4.

4 Výskyt živočichů v blízkosti vod poznáme podle jejich obydlí. Spoj čarami, co k sobě patří.

5 Zvířecí hádanka: Přečti si pozorně popis vodního živočicha a dopiš jeho jméno.

Jsem velmi mrštná a chytrá šelma. Patřím k našim největším vodním savcům. Mám hustý hnědý kožíšek a na nohách plovací blány. Umím se velmi dobře potápět. Nejvíce si pochutnám na rybách, proto nejsem mezi rybáři moc oblíbená.

Jmenuji se .....

6 Vyber správné slovo z nabídky a nehodící se škrtni.

Rak říční patří do skupiny **korýšů** - **ryb**. Vyskytuje se pouze v **čistých** - **znečištěných** vodách. Proto jich je v našich tocích **málo** - **hodně**. Tělo je tvořeno hlavohrudí, zadečkem a ocasní **ploutvičkou** - **končetinou**. Jeden pár končetin je přeměněn v dlouhá a ostrá **tykadla** - **klepeta**. Přirozeným predátorem raka je **vydra** - **ledňáček** říční.